Aritmogramm-tabel XLVII.

Quantité moyenne des heures de condensations atmosphériques diurnes. Chaque „—“ indique 1 heure de précipitation.



I	II	III	IV	V	VI	VII	VIII	IX	X	XI	XII
7,6	7,8	7,5	6,8	6,0	5,3	5,1	5,7	6,2	6,9	7,4	7,4

Sademetundide keskmine arv ühel sademepäeval Tartus (iga „—“ tähendab 1 sademetundi).

Aritmogramm-tabel XLVIII.

Quantité moyenne de précipitations pendant une heure de condensations atmosphériques. Chaque „—“ indique 0,2 mm.

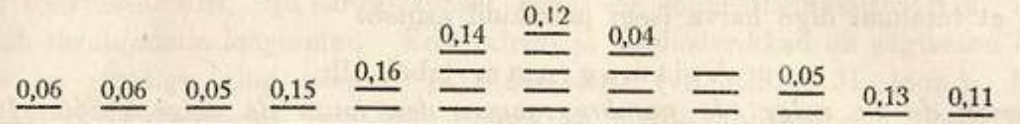

I	II	III	IV	V	VI	VII	VIII	IX	X	XI	XII
0,26	0,26	0,25	0,35	0,56	0,94	1,12	0,84	0,60	0,45	0,33	0,31

Sademete keskmine hulk ühel sademetunnil (iga „—“ tähendab 0,2 mm).

Aritmogramm-tabel XLIX.

Fréquence des orages. Nombre moyen et maximum des jours orageux (1866—1915). Chaque „—“ indique un jour.

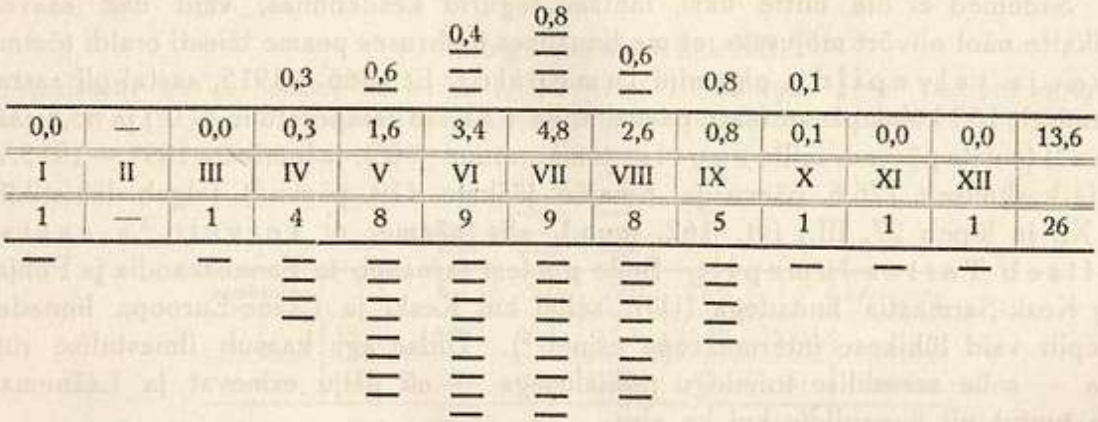

0,0	—	0,0	0,3	1,6	3,4	4,8	2,6	0,8	0,1	0,0	0,0	13,6
I	II	III	IV	V	VI	VII	VIII	IX	X	XI	XII	
1	—	1	4	8	9	9	8	5	1	1	1	26

Keskmine ja suurim kõuepäevade arv Tartus 1866.—1915. a. (iga „—“ tähendab 1 kõuepäeva).

Aritmogramm-tabel L.

Le nombre moyen des jours de grêle (1866—1915). Chaque „—“ indique 0,2 jours.

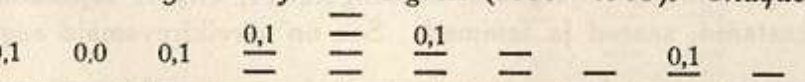

I	II	III	IV	V	VI	VII	VIII	IX	X	XI	XII	A
0,1	0,0	0,1	0,5	0,8	0,5	0,4	0,2	0,3	0,2	0,1	0,0	3,2

Keskmine rahepäevade arv (1866—1915) (iga „—“ tähendab 0,2 päeva).